見学日　　年　　月　　日（　　）

しもつけ風土記の丘資料館 学習シート

年　　組　　名前　　解答

1～5　事前学習

1 右の写真（画像）は、下野市の甲塚古墳で全国で初めて見つかった はにわ で、国の重要文化財にも指定されました。何というでしょう。ア～ウの中からえらびましょう。

（　ウ　）

ア　武人はにわ　　イ　円筒はにわ　　ウ　機織りはにわ

2 飛鳥時代の以下の出来事について、（　）に当てはまる言葉を、下の［　］からえらんで書きましょう。

・聖徳太子（厩戸皇子）は、使者として（ 小野妹子 ）らを隋に送り(遣隋使)、対等に外交を行い、また、隋の政治のしくみや文化を取り入れようとした。

・仏教が広まり、力の象徴であった古墳に代わって（　寺院　）が建てられるようになった。

・下野国(栃木県)出身の豪族（ 下毛野朝臣古麻呂 ）が、都で法律をつくるメンバーとして活躍。参議(今でいう大臣)の地位にまで、えらくなった。

［小野妹子　推古天皇　下毛野朝臣古麻呂　寺院　高床倉庫］

3 ①～③の建物の説明として正しいものを、下のア～ウからえらんで書きましょう。

①下野国府

（　ウ　）

②下野国分寺

（　イ　）

③下野薬師寺

（　ア　）

ア　奈良時代、「戒壇」といわれる施設が置かれ、東日本に住む人で僧侶になりたい人は、ここへ来て僧侶になるための試験を受けた。

イ　奈良時代、国が乱れたため、聖武天皇が仏教の力で人々を守ろうと、全国に建てさせた寺院のうち、下野国（栃木県）に建てられたもの。

ウ　奈良時代の下野国の政治・経済・文化の中心地。今でいう県庁のこと。中心となる建物・国庁では、国司が政務や儀式を行った。

4 「風土記（ふどき）」について書かれた次の文章の（　　）に当てはまる言葉を、下の［　　］からえらんで書きましょう。

713年、政府は各地の国ごとに「風土記（ふどき）」を提出するように命じた。
風土記とは、その国の生産力、（ 特産物 ）、（ 地形 ）、（ 気候 ）、伝説など様々な内容を書いてまとめたもの。
また、風土記をまとめる時に、国やその地域の名前に「良い漢字二文字」をつけるように指示があったため、今の（ 栃木県 ）にあたる国の名前は「下毛野国（しもつけのくに）」から「（ 下野国 ）」になった。

下野国	特産物	地形	気候	栃木県

5 家や学校の近くにある古墳（または、栃木県にある古墳）について、調べてみましょう。

●古墳の名前
（　　古 墳　）

●古墳のかたち（例：前方後円墳、円墳 など）
（　　墳　）

●その他、調べてわかったこと
（例：いつごろ作られた古墳なのか、はにわなどが見つかっているかどうか、など）



6 ～ 12　✨ 現地学習 ✨

6 ヤマト政権のお墓の形を前方後円墳（ぜんぽうこうえんふん）といいます。江戸（えど）時代にこの呼び名をつけた、下野国宇都宮出身の学者の名前を書きましょう。

（　蒲生君平　）

7 下野市にある甲塚（かぶとづか）古墳からは、たくさんの土器がまとまって見つかりました。
これは、何のためのものだったと考えられるでしょう。
下のア～ウの中からえらびましょう。
（　イ　）

ア 食べ物を煮たり保存したりするのに使われた
イ 亡くなった人のお別れの儀式で使われた
ウ 古墳を悪いものから守る（魔（ま）よけにする）ために飾（かざ）られた

8 古墳時代後半、栃木県南部（下野市、栃木市、上三川町など）で共通する特徴（とくちょう）をもつ古墳がつくられました。
次の文章の（　　）に、あてはまる言葉を書きましょう。

お墓の敷地は広いが塚（盛り土）の部分は小さく、
凝灰岩（ぎょうかいがん）（例：大谷石）の大きな板状の石で、
石の部屋をつくる、などの特徴がある。
これを、（　下野型　古 墳 ）と呼ぶ。

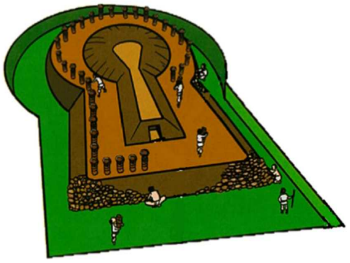

9 下毛野朝臣古麻呂（しもつけのあそん こまろ）は、地方豪族出身でありながら、大変優秀だったため、参議（さんぎ）(今でいう大臣)に任命され、国の政治の中心で活躍しました。古麻呂が行ったことを書いた次の文章の(　　)に当てはまる言葉を、下の［　］からえらんで書きましょう。

・日本で初めての本格的な法律「(　大宝律令　)」を作った。
・(　文武天皇　)のお墓(古墳)を作る責任者になった。
・(　下野薬師寺　)の建立に関わった。

［　聖武天皇（しょうむ てんのう）　大宝律令（たいほうりつりょう）　文武天皇（もんむ てんのう）　東大寺　下野薬師寺　］

10 奈良時代には、都がおかれた畿内のほか、地方が大きく7つの地域に分けられ、都とそれぞれの地域をむすぶ大きな道路に、その地域の名前がつけられました。
右の地図の（　　）にあてはまる道路（地方）の名前を、ア～ウからえらんで書きましょう。

ア 東海道　　イ 東山道
ウ 北陸道

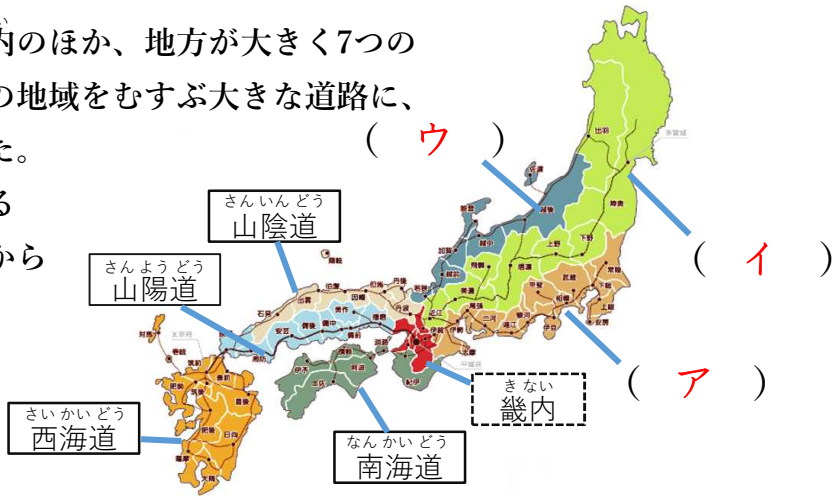

11 古代(奈良時代)の頃の食事のメニューと、食べていた人の身分を線で結びましょう。



鮎の塩焼き　　蘇　　雑穀入り玄米ご飯

12 古代の役所や寺院の建物の屋根には、色々な種類の、多くの瓦が使われていました。
展示室にある瓦の中から好きなものを見つけて、スケッチしてみましょう。

●瓦の名前
（　軒丸瓦　軒平瓦　鬼瓦　）
など

●瓦が見つかった遺跡(建物)の名前
（　下野国分寺　下野薬師寺　）
など